# Ред извршавања рачунских операција

| | Број звезда | Број заставица | Свега звезда и заставица |
|---|---|---|---|
| | 3 | 2 • 3 | 3 + 2 • 3 = 3 + 6 = 9 |
| | | | Ученици су изрезали свега 9 звезда и заставица |

Извор: Моро
Бантова
Математика 2

# Ред извршавања рачунских операција

371. За украшавање јелке ученици су изрезали 3 звезде, а заставица 2 пута више него звезда. Колико свега звезда и заставица су ученици изрезали?

# Ред извршавања рачунских операција

371. За украшавање јелке ученици су изрезали 3 звезде, а заставица 2 пута више него звезда. Колико свега звезда и заставица су ученици изрезали?

# Ред извршавања рачунских операција

371. За украшавање јелке ученици су изрезали 3 звезде, а заставица 2 пута више него звезда. Колико свега звезда и заставица су ученици изрезали?

# Ред извршавања рачунских операција

371. За украшавање јелке ученици су изрезали 3 звезде, а заставица 2 пута више него звезда. Колико свега звезда и заставица су ученици изрезали?

# Ред извршавања рачунских операција

371. За украшавање јелке ученици су изрезали 3 звезде, а заставица 2 пута више него звезда. Колико свега звезда и заставица су ученици изрезали?

| | Број звезда | Број заставица | Свега звезда и заставица |
|---|---|---|---|
| | | | |
| | | | |

# Ред извршавања рачунских операција

371. За украшавање јелке ученици су изрезали 3 звезде, а заставица 2 пута више него звезда. Колико свега звезда и заставица су ученици изрезали?

| | Број звезда | Број заставица | Свега звезда и заставица |
|---|---|---|---|
| | 3 | 2 • 3 | |
| | | | |

# Ред извршавања рачунских операција

371. За украшавање јелке ученици су изрезали 3 звезде, а заставица 2 пута више него звезда. Колико свега звезда и заставица су ученици изрезали?

| | Број звезда | Број заставица | Свега звезда и заставица |
|---|---|---|---|
| | 3 | $2 \cdot 3$ | $3 + 2 \cdot 3$ |
| | | | |

# Ред извршавања рачунских операција

371. За украшавање јелке ученици су изрезали 3 звезде, а заставица 2 пута више него звезда. Колико свега звезда и заставица су ученици изрезали?

| | Број звезда | Број заставица | Свега звезда и заставица |
|---|---|---|---|
| | 3 | $2 \cdot 3$ | $3 + 2 \cdot 3 = 3 + 6$ |
| | | | |

# Ред извршавања рачунских операција

371. За украшавање јелке ученици су изрезали 3 звезде, а заставица 2 пута више него звезда. Колико свега звезда и заставица су ученици изрезали?

| | Број звезда | Број заставица | Свега звезда и заставица |
|---|---|---|---|
| | 3 | $2 \cdot 3$ | $3 + 2 \cdot 3 = 3 + 6 = 9$ |
| | | | |

# Ред извршавања рачунских операција

371. За украшавање јелке ученици су изрезали 3 звезде, а заставица 2 пута више него звезда. Колико свега звезда и заставица су ученици изрезали?

| | Број звезда | Број заставица | Свега звезда и заставица |
|---|---|---|---|
| | 3 | $2 \cdot 3$ | $3 + 2 \cdot 3 = 3 + 6 = 9$ |
| | | | Ученици су изрезали свега 9 звезда и заставица |

Браво !

# Ред извршавања рачунских операција

372. Низ брдо се на санкама спуштало 18 момака, а на скијама 3 пута мање него на санкама. Колико свега момака се спуштало низ брдо?

# Ред извршавања рачунских операција

372. Низ брдо се на санкама спуштало 18 момака, а на скијама 3 пута мање него на санкама. Колико свега момака се спуштало низ брдо?

# Ред извршавања рачунских операција

372. Низ брдо се на санкама спуштало 18 момака, а на скијама 3 пута мање него на санкама. Колико свега момака се спуштало низ брдо?

# Ред извршавања рачунских операција

372. Низ брдо се на санкама спуштало 18 момака, а на скијама 3 пута мање него на санкама. Колико свега момака се спуштало низ брдо?

| | Број момака на санкама | Број момака на скијама | Колико свега момака се спуштало низ брдо? |
|---|---|---|---|
| | | | |
| | | | |

# Ред извршавања рачунских операција

372. Низ брдо се на санкама спуштало 18 момака, а на скијама 3 пута мање него на санкама. Колико свега момака се спуштало низ брдо?

| | Број момака на санкама | Број момака на скијама | Колико свега момака се спуштало низ брдо? |
|---|---|---|---|
| | 18 | 18 : 3 | |
| | | | |

# Ред извршавања рачунских операција

372. Низ брдо се на санкама спуштало 18 момака, а на скијама 3 пута мање него на санкама. Колико свега момака се спуштало низ брдо?

| | Број момака на санкама | Број момака на скијама | Колико свега момака се спуштало низ брдо? |
|---|---|---|---|
| | 18 | 18 : 3 | 18 + 18 : 3 |
| | | | |

# Ред извршавања рачунских операција

372. Низ брдо се на санкама спуштало 18 момака, а на скијама 3 пута мање него на санкама. Колико свега момака се спуштало низ брдо?

| | Број момака на санкама | Број момака на скијама | Колико свега момака се спуштало низ брдо? |
|---|---|---|---|
| | 18 | 18 : 3 | 18 + 18 : 3 = 18 + 6 = 24 |
| | | | |

# Ред извршавања рачунских операција

372. Низ брдо се на санкама спуштало 18 момака, а на скијама 3 пута мање него на санкама. Колико свега момака се спуштало низ брдо?

| | Број момака на санкама | Број момака на скијама | Колико свега момака се спуштало низ брдо? |
|---|---|---|---|
| | 18 | 18 : 3 | 18 + 18 : 3 = 18 + 6 = 24 |
| | | | Низ брдо се спуштало свега 24 момка. |

Браво !

# Ред извршавања рачунских операција

373. Син има 8 година. Отац је 4 пута старији од сина. Колико година има отац?

# Ред извршавања рачунских операција

373. Син има 8 година. Отац је 4 пута старији од сина. Колико година има отац?

| | Број година сина | Број година оца |
|---|---|---|
| | | |
| | | |

# Ред извршавања рачунских операција

373. Син има 8 година. Отац је 4 пута старији од сина. Колико година има отац?

| | Број година сина | Број година оца |
|---|---|---|
| | 8 | 4 • 8 |
| | | |

# Ред извршавања рачунских операција

373. Син има 8 година. Отац је 4 пута старији од сина. Колико година има отац?

| | Број година сина | Број година оца |
|---|---|---|
| | 8 | $4 \cdot 8 = 32$ |
| | | |

# Ред извршавања рачунских операција

373. Син има 8 година. Отац је 4 пута старији од сина. Колико година има отац?

| | Број година сина | Број година оца |
|---|---|---|
| | 8 | $4 \cdot 8 = 32$ |
| | Отац има 32 године. | |

Браво !

# Ред извршавања рачунских операција

374. Баба има 60 година. Унук је 10 пута млађи од бабе. Колико година има унук?

# Ред извршавања рачунских операција

374. Баба има 60 година. Унук је 10 пута млађи од бабе. Колико година има унук?

| | Колико баба има година | Колико пута је унук млађи од бабе |
|---|---|---|
| | | |
| | | |

# Ред извршавања рачунских операција

374. Баба има 60 година. Унук је 10 пута млађи од бабе. Колико година има унук?

| | Колико баба има година | Колико пута је унук млађи од бабе |
|---|---|---|
| | 60 | 10 пута |
| | | |

# Ред извршавања рачунских операција

374. Баба има 60 година. Унук је 10 пута млађи од бабе. Колико година има унук?

| | Колико баба има година | Колико пута је унук млађи од бабе | Колико година има унук |
|---|---|---|---|
| | 60 | 10 пута | 60 : 10 |
| | | | |

# Ред извршавања рачунских операција

374. Баба има 60 година. Унук је 10 пута млађи од бабе. Колико година има унук?

| | Колико баба има година | Колико пута је унук млађи од бабе | Колико година има унук |
|---|---|---|---|
| | 60 | 10 пута | 60 : 10 = 6 |
| | | | |

# Ред извршавања рачунских операција

374. Баба има 60 година. Унук је 10 пута млађи од бабе. Колико година има унук?

| | Колико баба има година | Колико пута је унук млађи од бабе | Колико година има унук |
|---|---|---|---|
| | 60 | 10 пута | 60 : 10 = 6 |
| | | | Унук има 6 година. |

Браво !

# Ред извршавања рачунских операција

375. Нацртај квадрат са страницом 3 ст 5 мм. Нацртај у њему дуж тако да се добију два правоугаоника.

# Ред извршавања рачунских операција

375. Нацртај квадрат са страницом 3 cm 5 mm. Нацртај у њему дуж тако да се добију два правоугаоника.



# Ред извршавања рачунских операција

375. Нацртај квадрат са страницом 3 ст 5 мм. Нацртај у њему дуж тако да се добију два правоугаоника.



# Ред извршавања рачунских операција

375. Нацртај квадрат са страницом 3 ст 5 мм. Нацртај у њему дуж тако да се добију два правоугаоника.



# Ред извршавања рачунских операција

375. Нацртај квадрат са страницом 3 ст 5 мм. Нацртај у њему дуж тако да се добију два правоугаоника.



Браво !

# Ред извршавања рачунских операција

376. Запиши заграде тако да једнакости буду тачне:

# Ред извршавања рачунских операција

376. Запиши заграде тако да једнакости буду тачне:

| | | | |
|---|---|---|---|
| | $15 - 6 \cdot 2 = 18$ | $4 \cdot 8 - 5 = 12$ | $3 \cdot 6 - 2 = 12$ |
| | $65 - 10 + 5 = 50$ | $12 + 24 : 4 = 9$ | $14 - 5 \cdot 2 = 18$ |

# Ред извршавања рачунских операција

376. Запиши заграде тако да једнакости буду тачне:

| | | | |
|---|---|---|---|
| | $15 - 6 \cdot 2 = 18$ | $4 \cdot 8 - 5 = 12$ | $3 \cdot 6 - 2 = 12$ |
| | $65 - 10 + 5 = 50$ | $12 + 24 : 4 = 9$ | $14 - 5 \cdot 2 = 18$ |


| | | | |
|---|---|---|---|
| | $15 - 6 \cdot 2 = 18$ | $4 \cdot 8 - 5 = 12$ | $3 \cdot 6 - 2 = 12$ |
| | $65 - 10 + 5 = 50$ | $12 + 24 : 4 = 9$ | $14 - 5 \cdot 2 = 18$ |

# Ред извршавања рачунских операција

376. Запиши заграде тако да једнакости буду тачне:

| | | | |
|---|---|---|---|
| | $15 - 6 \cdot 2 = 18$ | $4 \cdot 8 - 5 = 12$ | $3 \cdot 6 - 2 = 12$ |
| | $65 - 10 + 5 = 50$ | $12 + 24 : 4 = 9$ | $14 - 5 \cdot 2 = 18$ |

| | | | |
|---|---|---|---|
| | $(15 - 6) \cdot 2 = 18$ | $4 \cdot 8 - 5 = 12$ | $3 \cdot 6 - 2 = 12$ |
| | $65 - 10 + 5 = 50$ | $12 + 24 : 4 = 9$ | $14 - 5 \cdot 2 = 18$ |

# Ред извршавања рачунских операција

376. Запиши заграде тако да једнакости буду тачне:

| | | | |
|---|---|---|---|
| | $15 - 6 \cdot 2 = 18$ | $4 \cdot 8 - 5 = 12$ | $3 \cdot 6 - 2 = 12$ |
| | $65 - 10 + 5 = 50$ | $12 + 24 : 4 = 9$ | $14 - 5 \cdot 2 = 18$ |

| | | | |
|---|---|---|---|
| | $(15 - 6) \cdot 2 = 18$ | $4 \cdot 8 - 5 = 12$ | $3 \cdot 6 - 2 = 12$ |
| | $65 - (10 + 5) = 50$ | $12 + 24 : 4 = 9$ | $14 - 5 \cdot 2 = 18$ |

# Ред извршавања рачунских операција

376. Запиши заграде тако да једнакости буду тачне:

| | | | |
|---|---|---|---|
| | $15 - 6 \cdot 2 = 18$ | $4 \cdot 8 - 5 = 12$ | $3 \cdot 6 - 2 = 12$ |
| | $65 - 10 + 5 = 50$ | $12 + 24 : 4 = 9$ | $14 - 5 \cdot 2 = 18$ |

| | | | |
|---|---|---|---|
| | $(15 - 6) \cdot 2 = 18$ | $4 \cdot (8 - 5) = 12$ | $3 \cdot 6 - 2 = 12$ |
| | $65 - (10 + 5) = 50$ | $12 + 24 : 4 = 9$ | $14 - 5 \cdot 2 = 18$ |

# Ред извршавања рачунских операција

| | | | |
|---|---|---|---|
| | $15 - 6 \cdot 2 = 18$ | $4 \cdot 8 - 5 = 12$ | $3 \cdot 6 - 2 = 12$ |
| | $65 - 10 + 5 = 50$ | $12 + 24 : 4 = 9$ | $14 - 5 \cdot 2 = 18$ |

376. Запиши заграде тако да једнакости буду тачне:

| | | | |
|---|---|---|---|
| | $(15 - 6) \cdot 2 = 18$ | $4 \cdot (8 - 5) = 12$ | $3 \cdot 6 - 2 = 12$ |
| | $65 - (10 + 5) = 50$ | $(12 + 24) : 4 = 9$ | $14 - 5 \cdot 2 = 18$ |

# Ред извршавања рачунских операција

376. Запиши заграде тако да једнакости буду тачне:

| | | | |
|---|---|---|---|
| | $15 - 6 \cdot 2 = 18$ | $4 \cdot 8 - 5 = 12$ | $3 \cdot 6 - 2 = 12$ |
| | $65 - 10 + 5 = 50$ | $12 + 24 : 4 = 9$ | $14 - 5 \cdot 2 = 18$ |

| | | | |
|---|---|---|---|
| | $(15 - 6) \cdot 2 = 18$ | $4 \cdot (8 - 5) = 12$ | $3 \cdot (6 - 2) = 12$ |
| | $65 - (10 + 5) = 50$ | $(12 + 24) : 4 = 9$ | $14 - 5 \cdot 2 = 18$ |

# Ред извршавања рачунских операција

| | | | |
|---|---|---|---|
| | $15 - 6 \cdot 2 = 18$ | $4 \cdot 8 - 5 = 12$ | $3 \cdot 6 - 2 = 12$ |
| | $65 - 10 + 5 = 50$ | $12 + 24 : 4 = 9$ | $14 - 5 \cdot 2 = 18$ |

376. Запиши заграде тако да једнакости буду тачне:

| | | | |
|---|---|---|---|
| | $(15 - 6) \cdot 2 = 18$ | $4 \cdot (8 - 5) = 12$ | $3 \cdot (6 - 2) = 12$ |
| | $65 - (10 + 5) = 50$ | $(12 + 24) : 4 = 9$ | $(14 - 5) \cdot 2 = 18$ |

Браво !

# Ред извршавања рачунских операција

377. Израчунај:

# Ред извршавања рачунских операција

377. Израчунај:

| | | | |
|---|---|---|---|
| | $36 : 4 \cdot 3$ | $9 \cdot 4 - 28$ | $(73 - 45) : 7$ |
| | $27 : (12 : 4)$ | $12 + 4 \cdot 7$ | $(61 - 29) : 8$ |
| | $32 : 8 \cdot 9$ | $51 - 28 : 7$ | $(80 - 56) : 6$ |

# Ред извршавања рачунских операција

377. Израчунај:

| | | | |
|---|---|---|---|
| | $36 : 4 \cdot 3 =$<br>$9 \cdot 3 =$<br>$27$ | $9 \cdot 4 - 28$ | $(73 - 45) : 7$ |
| | $27 : (12 : 4)$ | $12 + 4 \cdot 7$ | $(61 - 29) : 8$ |
| | $32 : 8 \cdot 9$ | $51 - 28 : 7$ | $(80 - 56) : 6$ |

# Ред извршавања рачунских операција

377. Израчунај:

| | | | |
|---|---|---|---|
| | $36 : 4 \cdot 3 =$<br>$9 \cdot 3 =$<br>$27$ | $9 \cdot 4 - 28$ | $(73 - 45) : 7$ |
| | $27 : (12 : 4) =$<br>$27 : 3 =$<br>$9$ | $12 + 4 \cdot 7$ | $(61 - 29) : 8$ |
| | $32 : 8 \cdot 9$ | $51 - 28 : 7$ | $(80 - 56) : 6$ |

# Ред извршавања рачунских операција

377. Израчунај:

| | | | |
|---|---|---|---|
| | $36 : 4 \cdot 3 =$<br>$9 \cdot 3 =$<br>$27$ | $9 \cdot 4 - 28$ | $(73 - 45) : 7$ |
| | $27 : (12 : 4) =$<br>$27 : 3 =$<br>$9$ | $12 + 4 \cdot 7$ | $(61 - 29) : 8$ |
| | $32 : 8 \cdot 9 =$<br>$4 \cdot 9 =$<br>$36$ | $51 - 28 : 7$ | $(80 - 56) : 6$ |

# Ред извршавања рачунских операција

377. Израчунај:

| | | | |
|---|---|---|---|
| | $36 : 4 \cdot 3 =$<br>$9 \cdot 3 =$<br>$27$ | $9 \cdot 4 - 28 =$<br>$36 - 28 =$<br>$8$ | $(73 - 45) : 7$ |
| | $27 : (12 : 4) =$<br>$27 : 3 =$<br>$9$ | $12 + 4 \cdot 7$ | $(61 - 29) : 8$ |
| | $32 : 8 \cdot 9 =$<br>$4 \cdot 9 =$<br>$36$ | $51 - 28 : 7$ | $(80 - 56) : 6$ |

# Ред извршавања рачунских операција

377. Израчунај:

| | | | |
|---|---|---|---|
| | $36 : 4 \cdot 3 =$<br>$9 \cdot 3 =$<br>$27$ | $9 \cdot 4 - 28 =$<br>$36 - 28 =$<br>$8$ | $(73 - 45) : 7$ |
| | $27 : (12 : 4) =$<br>$27 : 3 =$<br>$9$ | $12 + 4 \cdot 7 =$<br>$12 + 28 =$<br>$40$ | $(61 - 29) : 8$ |
| | $32 : 8 \cdot 9 =$<br>$4 \cdot 9 =$<br>$36$ | $51 - 28 : 7$ | $(80 - 56) : 6$ |

# Ред извршавања рачунских операција

377. Израчунај:

| | | | |
|---|---|---|---|
| | $36 : 4 \cdot 3 =$<br>$9 \cdot 3 =$<br>$27$ | $9 \cdot 4 - 28 =$<br>$36 - 28 =$<br>$8$ | $(73 - 45) : 7$ |
| | $27 : (12 : 4) =$<br>$27 : 3 =$<br>$9$ | $12 + 4 \cdot 7 =$<br>$12 + 28 =$<br>$40$ | $(61 - 29) : 8$ |
| | $32 : 8 \cdot 9 =$<br>$4 \cdot 9 =$<br>$36$ | $51 - 28 : 7 =$<br>$51 - 4 =$<br>$47$ | $(80 - 56) : 6$ |

# Ред извршавања рачунских операција

377. Израчунај:

| | | | |
|---|---|---|---|
| | $36 : 4 \cdot 3 =$<br>$9 \cdot 3 =$<br>$27$ | $9 \cdot 4 - 28 =$<br>$36 - 28 =$<br>$8$ | $(73 - 45) : 7 =$<br>$28 : 7 =$<br>$4$ |
| | $27 : (12 : 4) =$<br>$27 : 3 =$<br>$9$ | $12 + 4 \cdot 7 =$<br>$12 + 28 =$<br>$40$ | $(61 - 29) : 8$ |
| | $32 : 8 \cdot 9 =$<br>$4 \cdot 9 =$<br>$36$ | $51 - 28 : 7 =$<br>$51 - 4 =$<br>$47$ | $(80 - 56) : 6$ |

# Ред извршавања рачунских операција

377. Израчунај:

| | | | |
|---|---|---|---|
| | $36 : 4 \cdot 3 =$<br>$9 \cdot 3 =$<br>$27$ | $9 \cdot 4 - 28 =$<br>$36 - 28 =$<br>$8$ | $(73 - 45) : 7 =$<br>$28 : 7 =$<br>$4$ |
| | $27 : (12 : 4) =$<br>$27 : 3 =$<br>$9$ | $12 + 4 \cdot 7 =$<br>$12 + 28 =$<br>$40$ | $(61 - 29) : 8 =$<br>$32 : 8 =$<br>$4$ |
| | $32 : 8 \cdot 9 =$<br>$4 \cdot 9 =$<br>$36$ | $51 - 28 : 7 =$<br>$51 - 4 =$<br>$47$ | $(80 - 56) : 6$ |

# Ред извршавања рачунских операција

377. Израчунај:

| | | | |
|---|---|---|---|
| | $36 : 4 \cdot 3 =$<br>$9 \cdot 3 =$<br>$27$ | $9 \cdot 4 - 28 =$<br>$36 - 28 =$<br>$8$ | $(73 - 45) : 7 =$<br>$28 : 7 =$<br>$4$ |
| | $27 : (12 : 4) =$<br>$27 : 3 =$<br>$9$ | $12 + 4 \cdot 7 =$<br>$12 + 28 =$<br>$40$ | $(61 - 29) : 8 =$<br>$32 : 8 =$<br>$4$ |
| | $32 : 8 \cdot 9 =$<br>$4 \cdot 9 =$<br>$36$ | $51 - 28 : 7 =$<br>$51 - 4 =$<br>$47$ | $(80 - 56) : 6 =$<br>$24 : 6 =$<br>$4$ |

Браво !